I. 1. Exercice 1

Soit la fonction définie par le schéma structurel ci-contre :

a) établir l'équation logique de S

b) tracer la table de vérité de la S

c) compléter le chronogramme de S

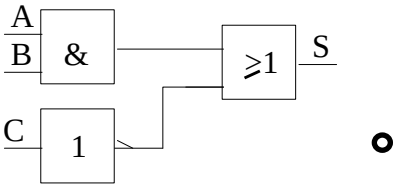

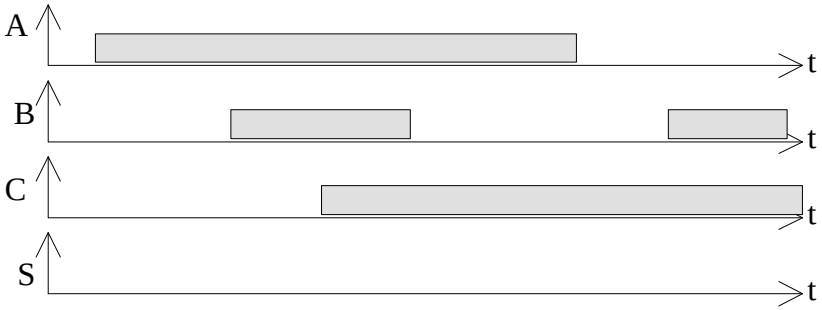

Exercice 2

a) établir l'équation logique de S
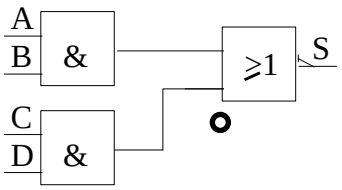
b) tracer la table de vérité de S